〈理科基礎シート〉

小６－５　人や動物の体

月　　日　　年　　組　　番　名前

1　図１は人の体のつくりを、図２は図１のあるぞう器のひだを、図３は不要になったものを体の外へはい出するぞう器を表したものです。

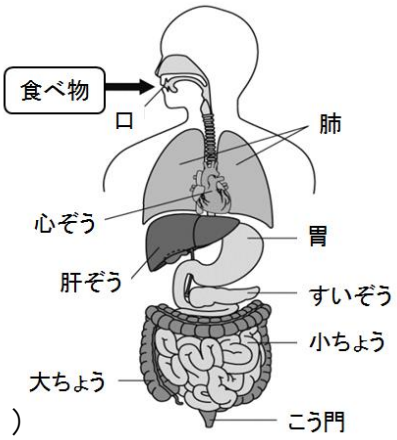

図１

（１）だ液は、でんぷんを別のものに変えるはたらきがあります。だ液や胃液のような液を何といいますか。
（　　）

（２）消化とは、食べ物をどのようにするはたらきかを書きましょう。
（　　）

（３）食べ物の通り道の名前を図１から選んで、食べ物の通る順番に書きましょう。
（口→　　→　　→　　→こう門）

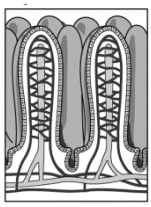
図２

（４）図２のひだがある図１のぞう器の名前を書きましょう。
（　　）

（５）次の①、②のはたらきをする図１のぞう器の名前を書きましょう。
①　食べ物を養分として吸収するぞう器（　　）
②　吸収した養分をたくわえるぞう器（　　）

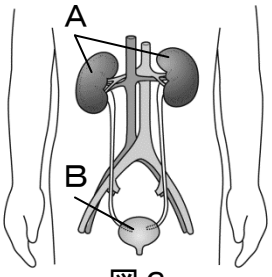

図３

（６）次の①～③の答えを書きましょう。
①　呼吸するぞう器の名前　（　　）
②　呼吸した後、増える気体の名前　（　　）
③　呼吸した後、へる気体の名前　（　　）

（７）血液を流すはたらきをするぞう器の名前を書きましょう。（　　）

（８）不要なものをこしとる図３のＡの名前を書きましょう。（　　）

（９）にょうをためる図３のＢの名前を書きましょう。（　　）

---------- キリトリ ----------

〈正答例〉

1（１）消化液　（２）体の中に吸収されやすいかたちにかえること。
（３）（口）→胃→小ちょう→大ちょう→（こう門）　（４）小ちょう
（５）①小ちょう　②かんぞう　（６）①肺　②二酸化炭素　③酸素
（７）心ぞう　（８）じんぞう　（９）ぼうこう